Установите соответствие между формулой органического вещества и названием его структурного изомера.

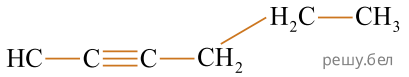

А)

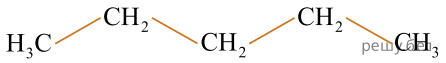

Б)

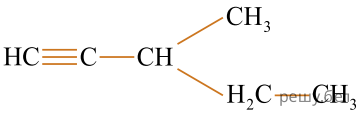

В)

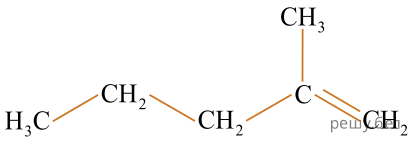

Г)

1 — гептин-2
2 — 2-метилпентен-1
3 — гексен-3
4 — гексин-3
5 — 2-метилбутан

Ответ запишите в виде сочетания букв и цифр, соблюдая алфавитную последовательность букв левого столбца, например: А3Б1В2Г2. Помните, что некоторые данные правого столбца могут использоваться несколько раз.